Tafel van 3: begrijpen

Naam: _____ Datum: _____

Tel de groepjes van 3, vul de lijn in en reken uit.

A. Tel de groepjes en maak de keersom.

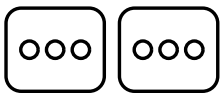

2 groepjes van 3 **2 × 3 =** ☐

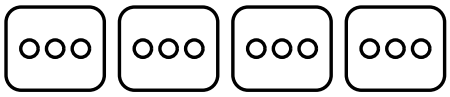

4 groepjes van 3 **4 × 3 =** ☐



5 groepjes van 3 **5 × 3 =** ☐

B. Sprongen op de getallenlijn: vul de lege vakjes in.

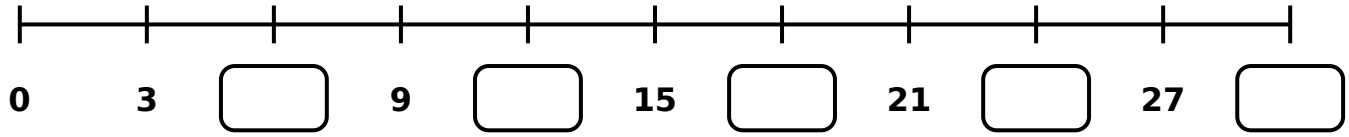

C. Reken de keersommen uit.

3 × 3 = ☐ **3 × 4 =** ☐

6 × 3 = ☐ **3 × 7 =** ☐

8 × 3 = ☐ **9 × 3 =** ☐

Trucje: neem 2 keer en tel er 1 keer bij (10×3 = 20+10).

Tafel van 3: begrijpen – antwoordblad

Hier zie je alle goede antwoorden van de tafel van 3.

A. Tel de groepjes en maak de keersom.

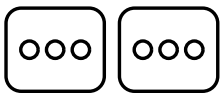

2 groepjes van 3 **2 × 3 =** **6**

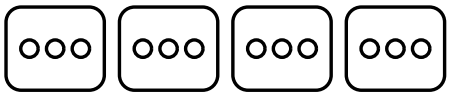

4 groepjes van 3 **4 × 3 =** **12**



5 groepjes van 3 **5 × 3 =** **15**

B. Sprongen op de getallenlijn: vul de lege vakjes in.

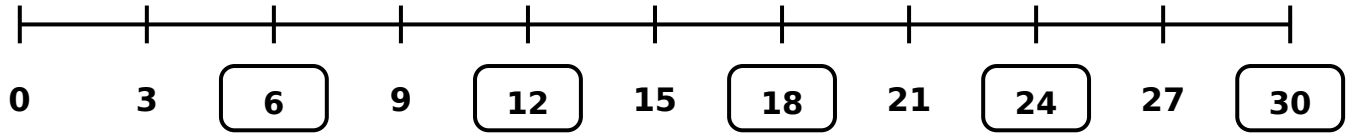

C. Reken de keersommen uit.

3 × 3 =	**9**	**3 × 4 =**	**12**
6 × 3 =	**18**	**3 × 7 =**	**21**
8 × 3 =	**24**	**9 × 3 =**	**27**

Trucje: neem 2 keer en tel er 1 keer bij (10×3 = 20+10).