Tafel van 3: toepassen

Naam: _____ Datum: _____

Maak de verhaaltjessommen, het tafelwiel en verbind.

A. Verhaaltjessommen: reken de keersom uit.

1. Er staan 4 driewielers met elk 3 wielen. **4 × 3 =** ☐

2. Bram koopt 6 pakjes met in elk pakje 3 stickers. **6 × 3 =** ☐

3. In 8 driehoeken zitten telkens 3 hoekpunten. **8 × 3 =** ☐

B. Tafelwiel (van binnen naar buiten)

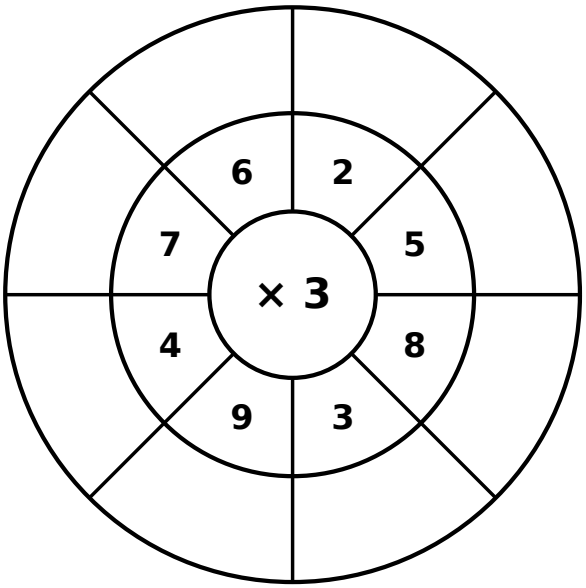

C. Verbind som en antwoord

3 × 3 ●	● **21**
7 × 3 ●	● **9**
5 × 3 ●	● **27**
9 × 3 ●	● **15**
6 × 3 ●	● **18**

Trucje: neem 2 keer en tel er 1 keer bij (7×3 = 14+7).

Tafel van 3: toepassen – antwoordblad

Hier zie je alle goede antwoorden van de tafel van 3.

A. Verhaaltjessommen: reken de keersom uit.

1. Er staan 4 driewielers met elk 3 wielen. **4 × 3 =** **12**

2. Bram koopt 6 pakjes met in elk pakje 3 stickers. **6 × 3 =** **18**

3. In 8 driehoeken zitten telkens 3 hoekpunten. **8 × 3 =** **24**

B. Tafelwiel (van binnen naar buiten)

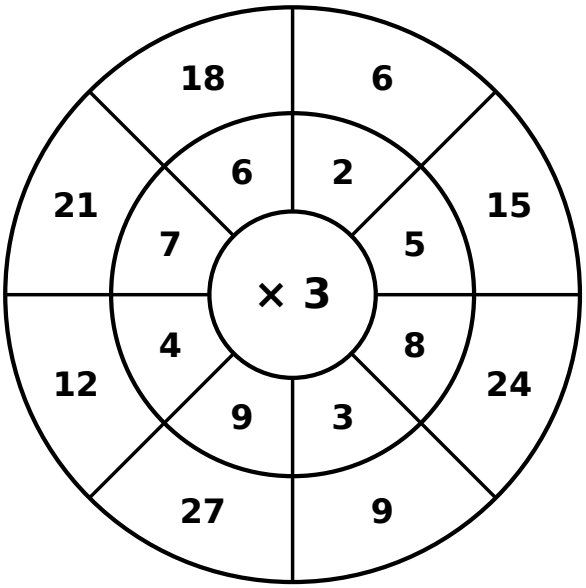

C. Verbind som en antwoord

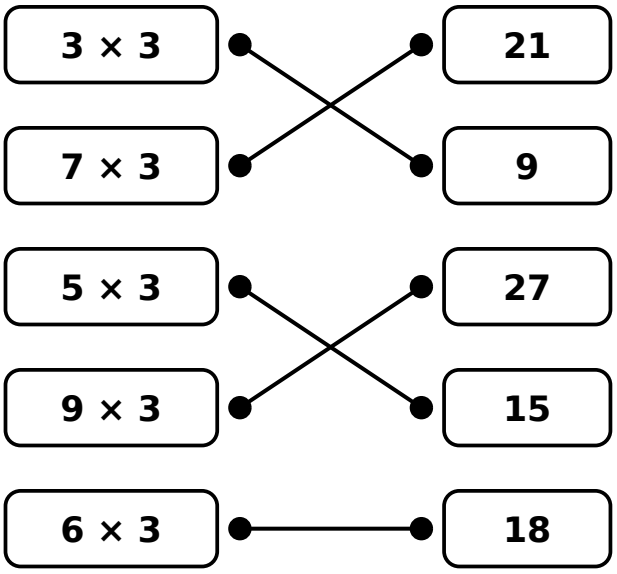

Trucje: neem 2 keer en tel er 1 keer bij (7×3 = 14+7).