Tafel van 6: begrijpen

Naam: _____ Datum: _____

Tel de groepjes van 6, vul de lijn in en reken uit.

A. Tel de groepjes en maak de keersom.

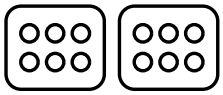

2 groepjes van 6 **2 × 6 = ☐**

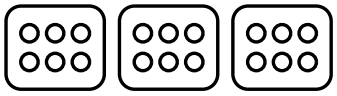

3 groepjes van 6 **3 × 6 = ☐**

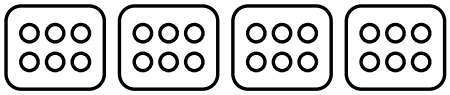

4 groepjes van 6 **4 × 6 = ☐**

B. Sprongen op de getallenlijn: vul de lege vakjes in.

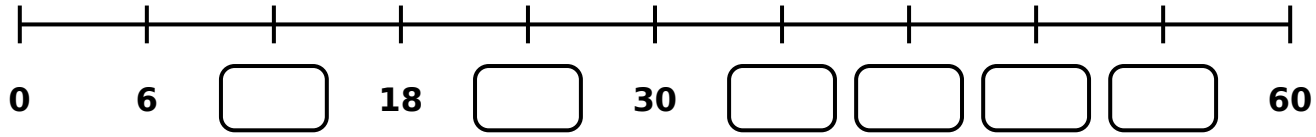

C. Reken de keersommen uit.

5 × 6 = ☐ **8 × 6 = ☐**

6 × 6 = ☐ **9 × 6 = ☐**

7 × 6 = ☐ **6 × 4 = ☐**

Trucje: neem 5 keer en tel er 1 keer bij (10×6 = 50+10).



Tafel van 6: begrijpen – antwoordblad

Hier zie je alle goede antwoorden van de tafel van 6.

A. Tel de groepjes en maak de keersom.

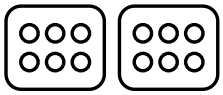

2 groepjes van 6 **2 × 6 =** **12**

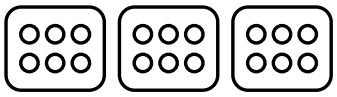

3 groepjes van 6 **3 × 6 =** **18**

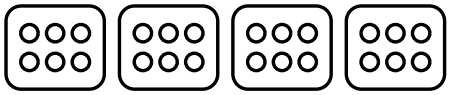

4 groepjes van 6 **4 × 6 =** **24**

B. Sprongen op de getallenlijn: vul de lege vakjes in.

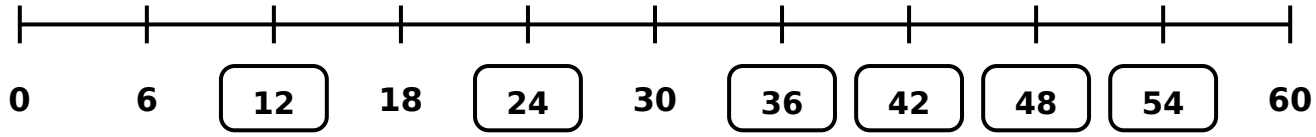

C. Reken de keersommen uit.

5 × 6 =	**30**	**8 × 6 =**	**48**
6 × 6 =	**36**	**9 × 6 =**	**54**
7 × 6 =	**42**	**6 × 4 =**	**24**

Trucje: neem 5 keer en tel er 1 keer bij (10×6 = 50+10).