Tafel van 6: toepassen

Naam: _____ Datum: _____

Maak de verhaaltjessommen, het tafelwiel en verbind.

A. Verhaaltjessommen: reken de keersom uit.

1. Er zijn 4 eierdozen met elk 6 eieren. **4 × 6 =** ☐

2. Sanne telt 6 kevers met elk 6 poten. **6 × 6 =** ☐

3. In de kast liggen 8 pakjes met elk 6 stiften. **8 × 6 =** ☐

B. Tafelwiel (van binnen naar buiten)

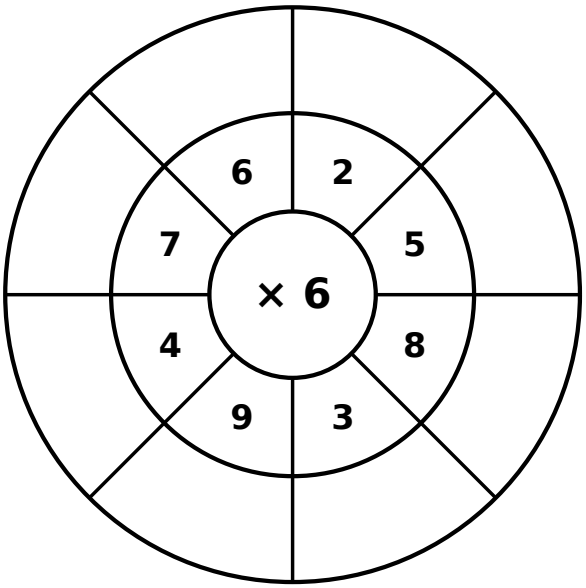

C. Verbind som en antwoord

3 × 6	**42**
7 × 6	**18**
5 × 6	**54**
9 × 6	**30**
6 × 6	**36**

Trucje: neem 5 keer en tel er 1 keer bij (7×6 = 35+7).

Tafel van 6: toepassen – antwoordblad

Hier zie je alle goede antwoorden van de tafel van 6.

A. Verhaaltjessommen: reken de keersom uit.

1. Er zijn 4 eierdozen met elk 6 eieren. **4 × 6 =** **24**

2. Sanne telt 6 kevers met elk 6 poten. **6 × 6 =** **36**

3. In de kast liggen 8 pakjes met elk 6 stiften. **8 × 6 =** **48**

B. Tafelwiel (van binnen naar buiten)

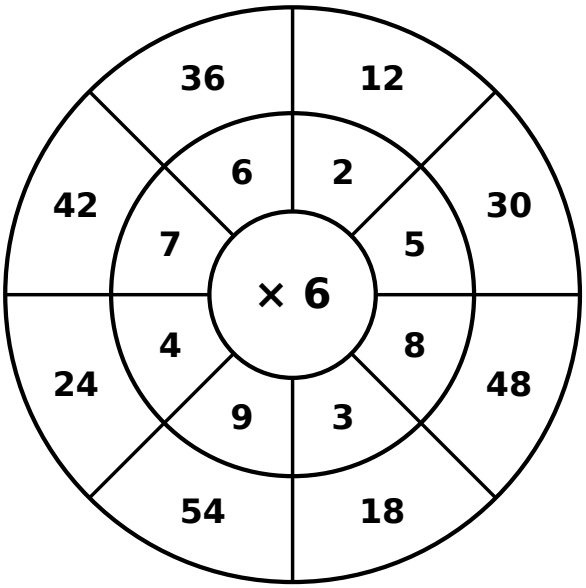

C. Verbind som en antwoord

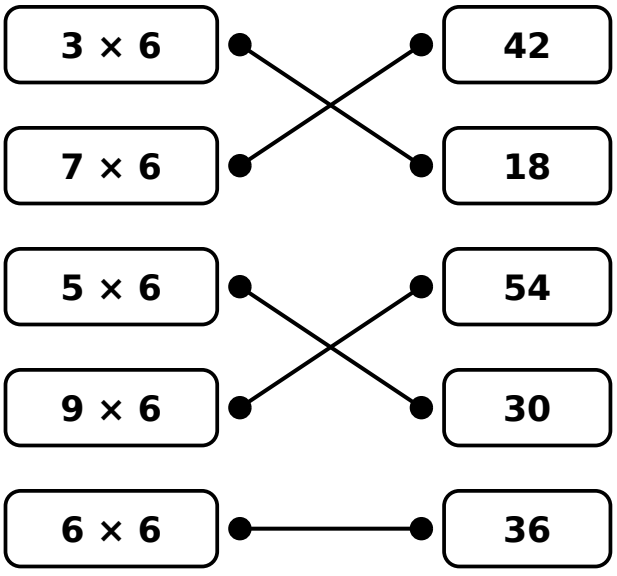

Trucje: neem 5 keer en tel er 1 keer bij (7×6 = 35+7).