Tafel van 9: begrijpen

Naam: _____ Datum: _____

Tel de groepjes van 9, vul de lijn in en reken uit.

A. Tel de groepjes en maak de keersom.

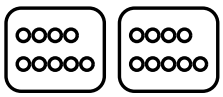

2 groepjes van 9 **2 × 9 = ☐**

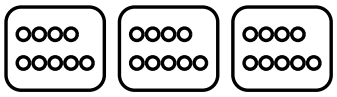

3 groepjes van 9 **3 × 9 = ☐**

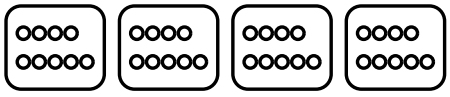

4 groepjes van 9 **4 × 9 = ☐**

B. Sprongen op de getallenlijn: vul de lege vakjes in.

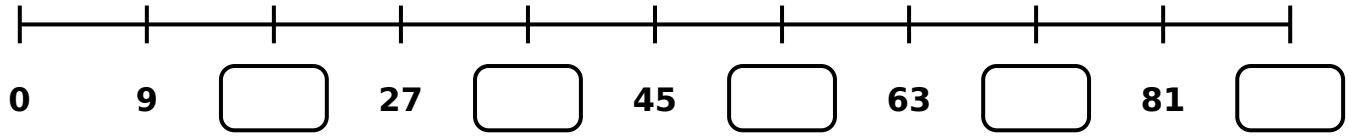

C. Reken de keersommen uit.

3 × 9 = ☐	**9 × 4 = ☐**
6 × 9 = ☐	**9 × 7 = ☐**
8 × 9 = ☐	**9 × 9 = ☐**

Trucje: neem 10 keer en haal er 1 keer af (5×9 = 50-5).

Tafel van 9: begrijpen – antwoordblad

Hier zie je alle goede antwoorden van de tafel van 9.

A. Tel de groepjes en maak de keersom.

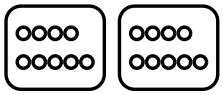

2 groepjes van 9 **2 × 9 =** **18**

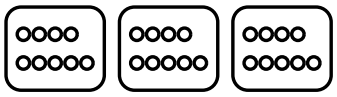

3 groepjes van 9 **3 × 9 =** **27**

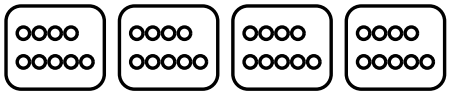

4 groepjes van 9 **4 × 9 =** **36**

B. Sprongen op de getallenlijn: vul de lege vakjes in.

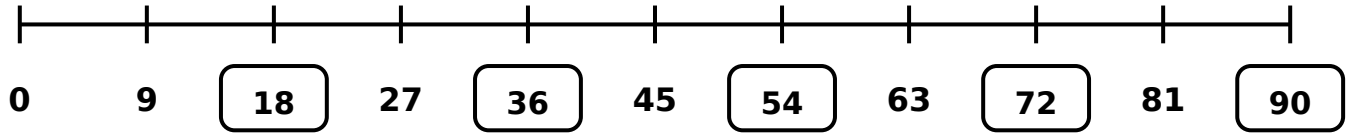

C. Reken de keersommen uit.

3 × 9 =	**27**	**9 × 4 =**	**36**
6 × 9 =	**54**	**9 × 7 =**	**63**
8 × 9 =	**72**	**9 × 9 =**	**81**

Trucje: neem 10 keer en haal er 1 keer af (5×9 = 50-5).